کوئیز شماره 3

1. گروه عاملی هر یک از ترکیبات زیر را مشخص نمائید.

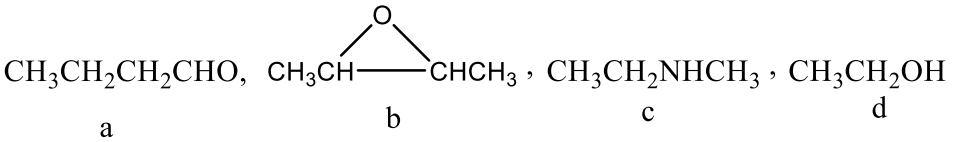

2. نقطه جوش کدام یک از ترکیبات زیر از همه بیشتر است؟ چرا؟

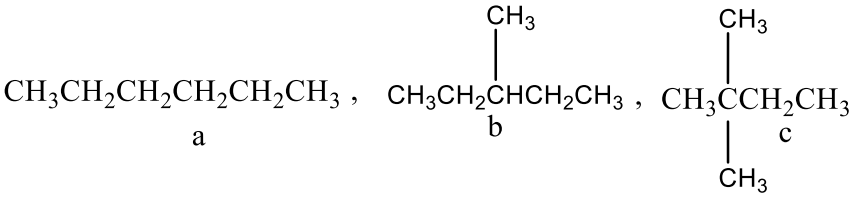

3. آیا این ترکیبات ایزومر هم می باشند؟ توضیح دهید.

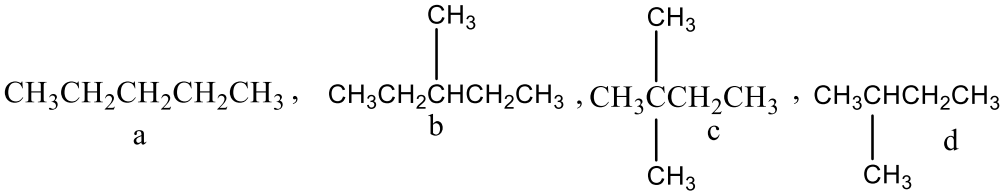

4. واکنش زیر چه نوع واکنشی است؟ اکسیداسیون یا احیا

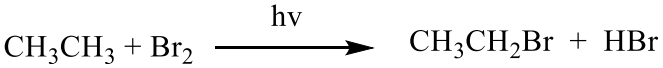

پاسخ ها را از طریق ایمیل فقط تا 72 ساعت دیگر ارسال نمائید.